PARTİKÜL MATEMATİK

MATEMATİK CİDDİ BİR İŞTİR EĞLENCE GEREKTİRİR...

VERİ ANALİZİ

Grafikler

- Daire Grafiği
- Sütun Grafiği
- Çizgi Grafiği

SORU

Grafik: Öğrenci sayısının sınıflara dağılımı

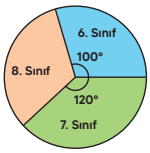

Bir okuldaki öğrenci sayısının sınıflara göre dağılımı yukarıdaki daire grafiğinde verilmiştir.

Bu okuldaki 7.sınıf öğrenci sayısı 90 olduğuna göre

a) Okulda toplam kaç öğrenci vardır?

b) 6.sınıfların yüzde 20 si, 8.sınıfların yüzde 40ı kız öğrenci olduğuna göre 6. ve 8.sınıflarda toplam kaç kız öğrenci vardır?

SORU

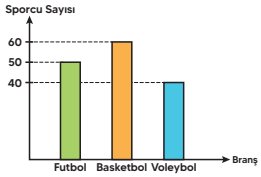

Bir spor kulübündeki branşlara kayıt olan sporcu sayıları yukarıdaki gibi sütun grafiğinde gösterilmiştir.

Bu spor kulübüne son gün tüm branşlara 10'ar sporcu daha kayıt olduğuna göre bu sporcuları daire grafiğinde gösteren bir kişi aşağıdaki daire dilimlerinden hangisi ile karşılaşmaz?

A)

B)

C)

D)

SORU

Bir markette satılan ürünlerin % 35'i temizlik, % 40'ı gıda, geriye kalanlar ise kozmetik ürünleridir.

Buna göre bu marketteki ürünlerin daire grafiği nasıl olur?



SORU

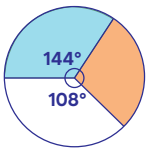

Bir otoparktaki araçların renk dağılımları daire grafiğinde verilmiştir.

Buna göre araçların yüzde kaçı kırmızı renklidir?

SORU

Grafik: Yıllara Göre Gelir Miktarı

Yukarıdaki grafikte bir firmanın dört yıllık gelir miktarı gösterilmiştir.

Verilen yıllara ait gelir miktarlarını gösteren daire grafiği aşağıdakilerden hangisidir?

A) Grafik: Yıllara Göre Gelir Miktarı

B) Grafik: Yıllara Göre Gelir Miktarı

C) Grafik: Yıllara Göre Gelir Miktarı

D) Grafik: Yıllara Göre Gelir Miktarı